Mesures CM1

Date

Prénom

1. Calcule le périmètre de ces polygones.

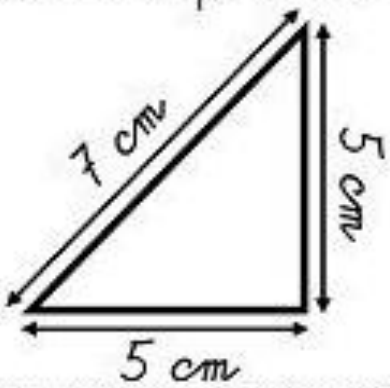

P = _____

P = _____ cm

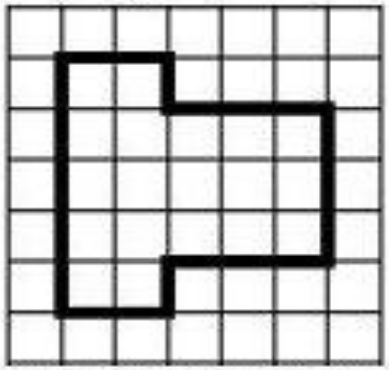

P = _____

P = _____ carreaux

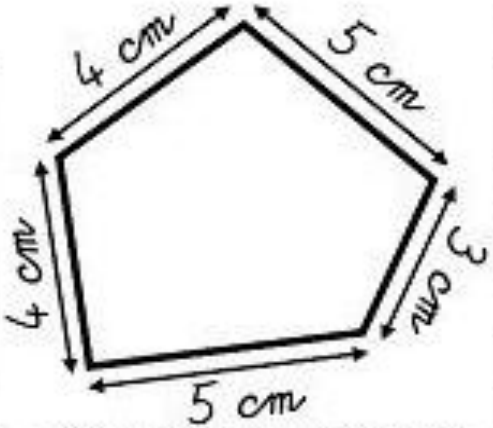

P = _____

P = _____ cm

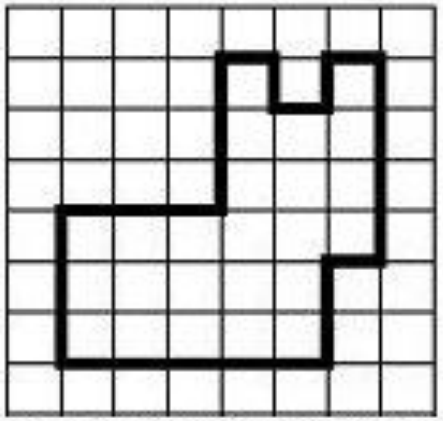

P = _____

P = _____ carreaux

2. Résous ce problème dans ton cahier.

Thomas veut entourer son potager carré de 15 m de côté avec une barrière.

Quelle longueur de barrière lui faut-il ?

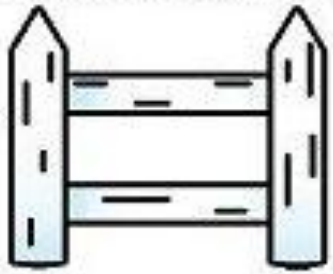

3. Dans ton cahier, trace un polygone de périmètre 12 carreaux !